Colegio España
Educación Parvularia

ÁMBITO: INTERACCIÓN Y COMPRENSIÓN DEL ENTORNO

NÚCLEO: Pensamiento matemático.

**OA: (10) identificar atributos de figuras 2D, como forma, cantidad de lados, y cantidad de vértices.**

**Habilidad: Reconocer figuras geométricas.**

# FIGURAS GEOMÉTRICAS



**NOMBRE: ……..**

**Fecha: ……**

El triángulo es una figura geométrica que tiene 3 lados y 3 vértices, a veces todos sus lados son iguales y otras veces son de distinto tamaño.

Actividad 1: Rellena o pinta con lo que tu elijas la figura del triángulo.

# Triángulo

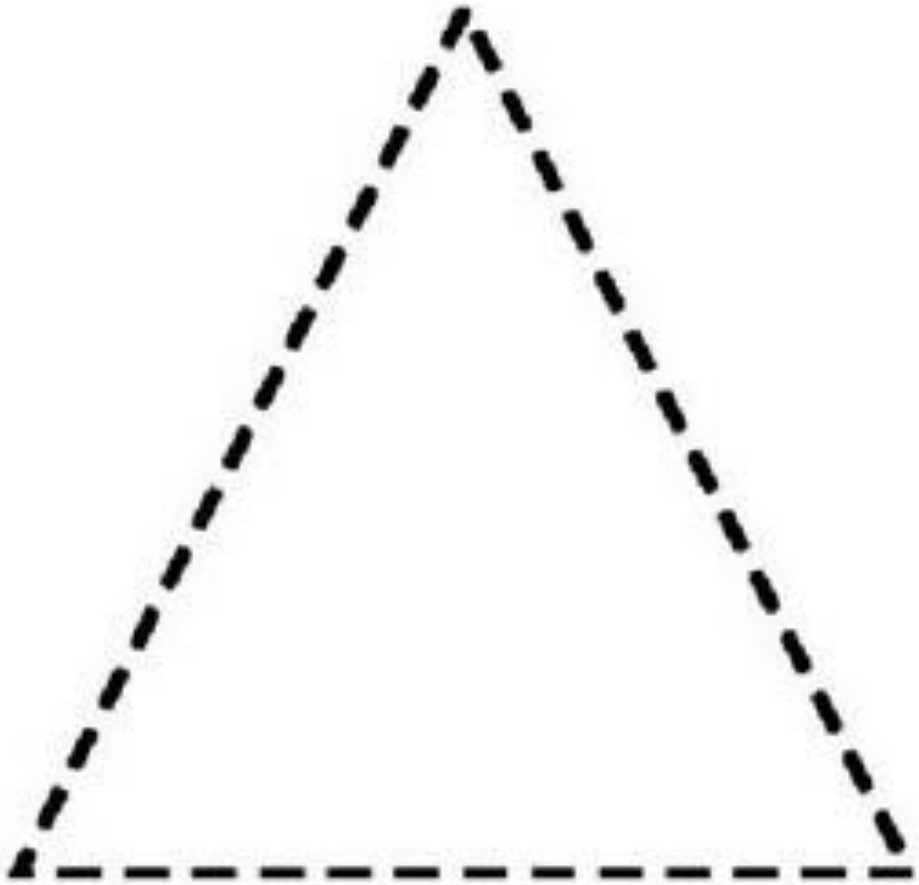

**Fecha: ……**

Actividad 2: Observa las imágenes, todas tienen forma de triángulo. Remarca los triángulos por la línea punteada con lápiz escripto y luego coloréalos de color amarillo. Finalmente dibuja un triángulo.




Remarca por la linea punteada.



Dibuja un triángulo.

Fecha: ……

El círculo es una figura geométrica diferente, no tiene lados ni vértices, solo tiene un borde circular.

Actividad 3: Rellena o colorea con lo que tu elijas la figura del círculo.

Círculo



**Fecha: ……**

Actividad 4: Observa las imágenes, todas tienen forma de círculo. Remarca los círculos por la línea punteada con lápiz escripto y luego coloréalos de color rojo. Finalmente dibuja un círculo.




Remarca por la linea punteada.



Dibuja un círculo.



**Fecha: ……**

El cuadrado es una figura geométrica con 4 lados iguales y tiene 4 vértices.

Actividad 5: Rellena o pinta con lo que tu elijas la figura del cuadrado.



**Fecha: ……**

Actividad 6: Observa las imágenes, todas tienen forma de cuadrado. Remarca los cuadrados por la línea punteada con lápiz escripto y luego coloréalos de color azul. Finalmente dibuja un cuadrado.

# Cuadrado



Remarca por la linea punteada.

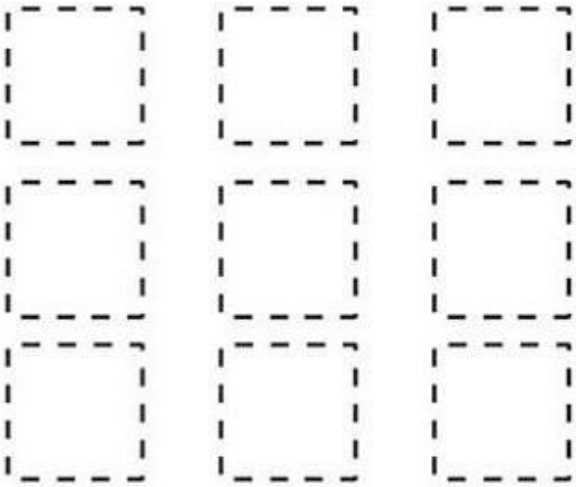

Dibuja un cuadrado.



**Fecha: ……**

El rectángulo es una figura geométrica que tiene 4 lados, pero no todos sus lados son iguales, tiene 4 vértices. Además, el rectángulo tiene dos lados del mismo tamaño.

Actividad 7: Rellena o pinta con lo que tu elijas la figura del rectángulo.

Fecha: ……

Actividad 8: Observa las imágenes, todas tienen forma de rectángulo. Remarca los rectángulos por la línea punteada con lápiz escripto y luego coloréalos de color verde. Finalmente dibuja un rectángulo.

**Fecha: ……**

El rombo es una figura geométrica de cuatro lados iguales que no forman ángulos rectos.

Actividad 9: Rellena o pinta con lo que tu elijas la figura del rombo.

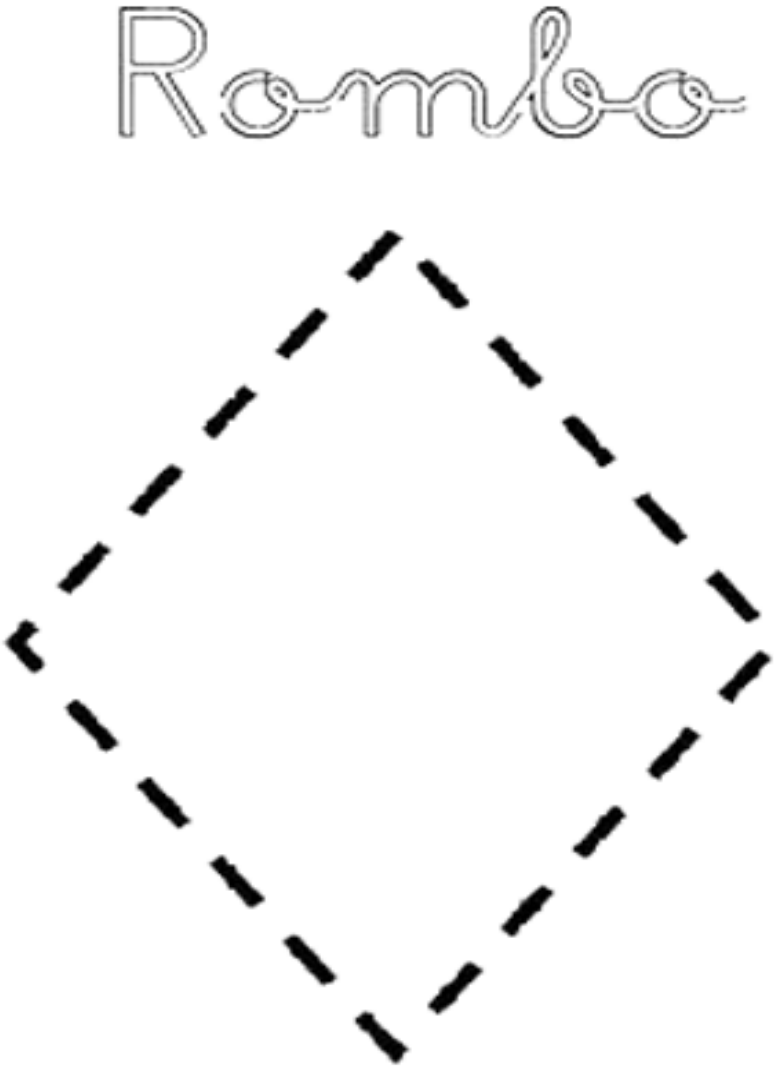

Fecha: ……

Actividad 10: Observa las imágenes, todas tienen forma de rombo. Remarca los rombos por la línea punteada con lápiz escripto y luego coloréalos de color verde. Finalmente dibuja un rectángulo.

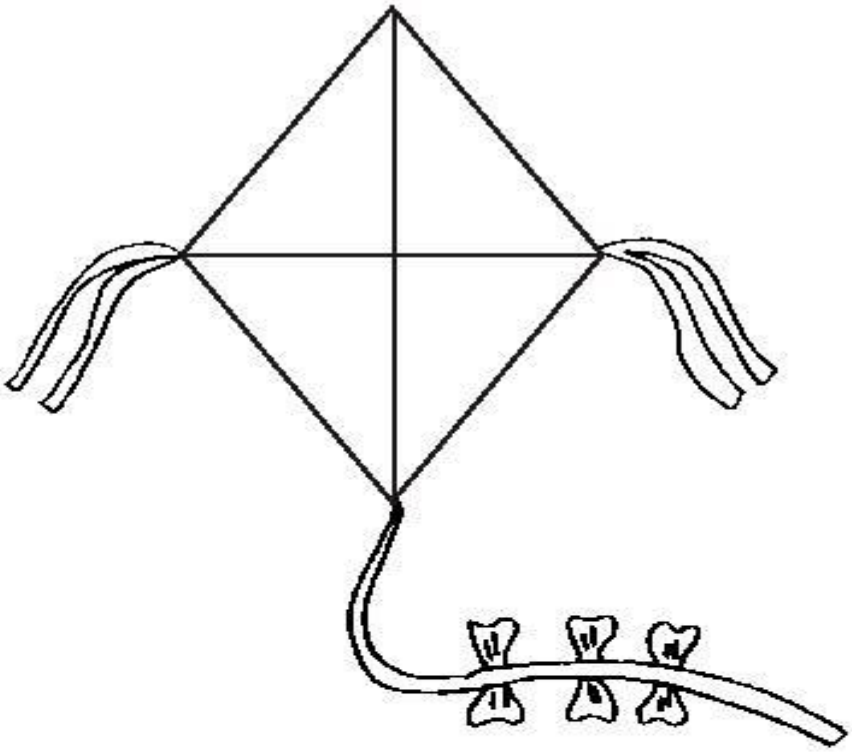

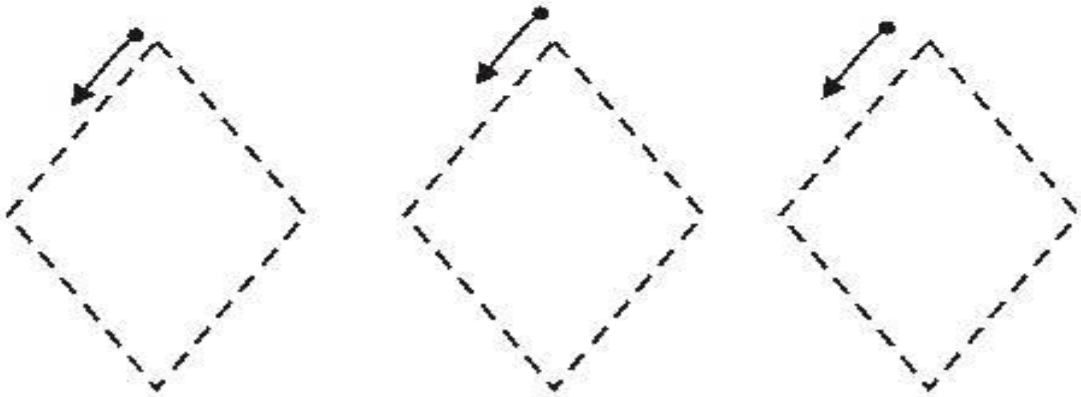

Fecha……..

Actividad 11

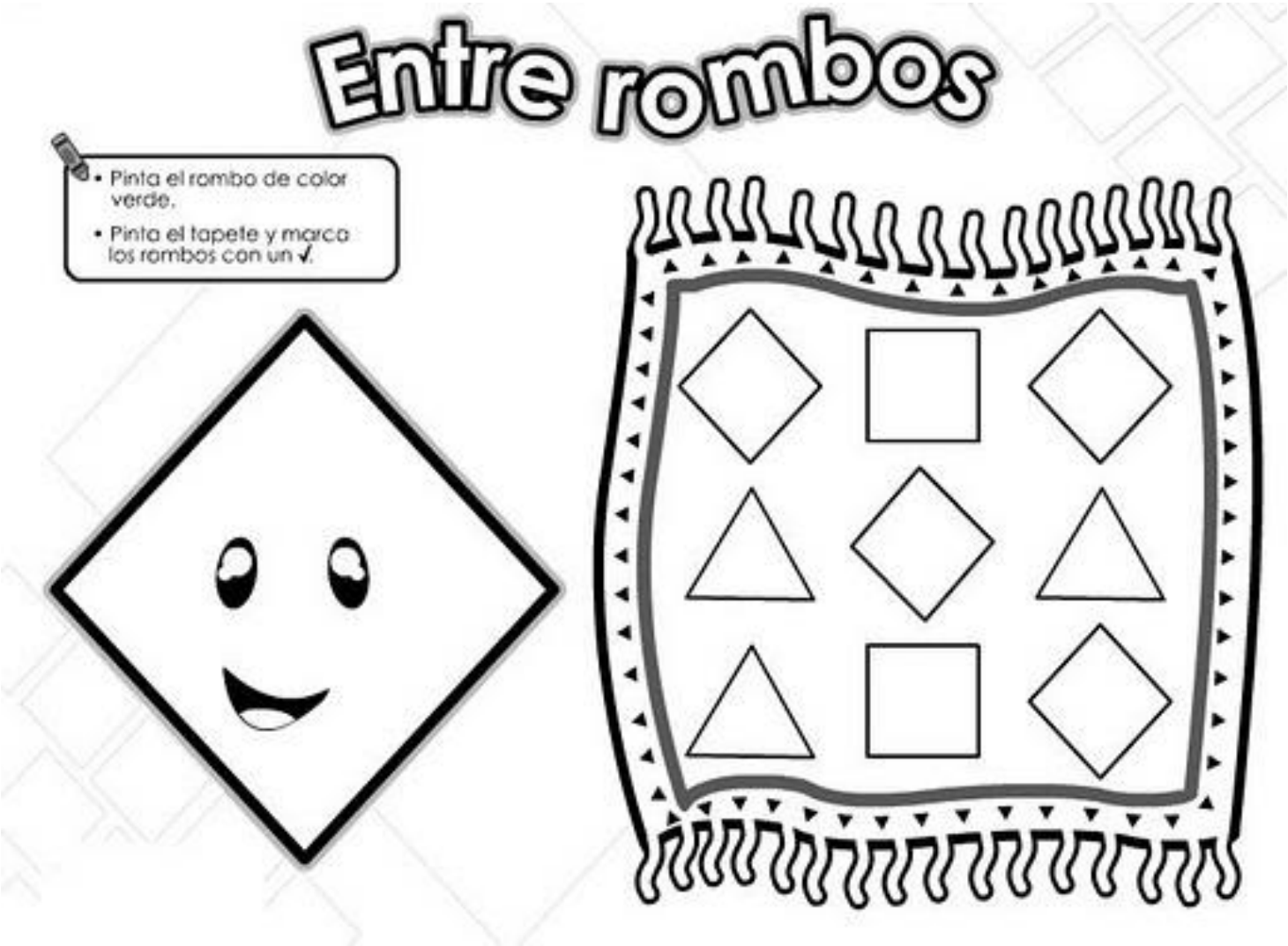


Dibuja un Rombo

**Fecha: ……**

El óvalo es una figura geométrica sin lados porque es redondo y tiene curvas, es un círculo aplastado.

Actividad 12: Rellena o pinta con lo que tu elijas la figura del óvalo.

Fecha: ……

Actividad 13: Coloréa los objetos que tienen forma ovalada y en el cuadrado dibuja un óvalo.




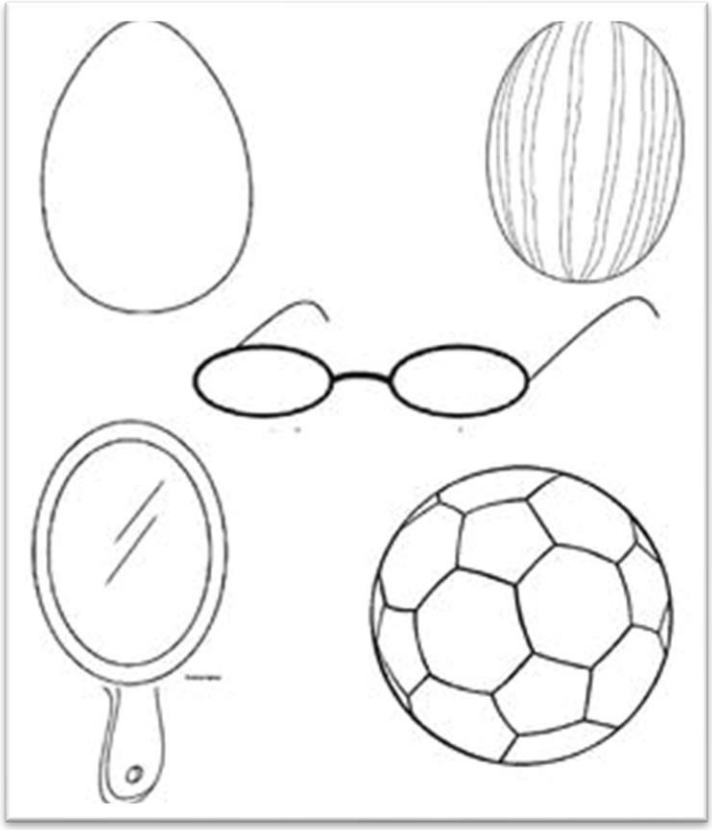

DIBUJA UN ÓVALO